屏東縣立恆春國中一一二學年度第二學期八年級國文科補考題庫

命題教師： 黃重賜 教師 命題範圍： 翰林版 L7~L9 審題教師： 洪秀娟 教師	班級：_____年_____班 座號：_____ 姓名：_____	分數：	家長簽名：

※答案請畫在答案卡上，科目代碼：01

一、單選題：50%（每題 2 分）

1.（ D ）飛魚一文中運用了很多譬喻，使讀者能夠親切了解。下列何者「不是」用來譬喻飛魚？ (A)漫飛的小昆蟲 (B)大型蜻蜓 (C)驚飛的蚱蜢 (D)巡邏的管理員。

2.（ D ）有關空城計的作法，下列哪一項說明最正確？ (A)說理曲折，氣勢磅礴 (B)議論具體，層次分明 (C)點出至理，情感洋溢 (D)情節緊湊，故事生動。

3.（ A ）下列「 」中的字，何組讀音兩兩相同？ (A)「喉」舌／「侯」爵 (B)「乍」聽／「炸」雞 (C)「遍」體鱗傷／屋漏「偏」逢連夜雨 (D)叱「吒」風雲／「宅」急便。

4.（ A ）下列各選項，何者「不是」廖鴻基寫作海洋文學所要表達的涵義？ (A)要充分開發海洋資源 (B)面對浩瀚的大自然應心存謙卑與敬畏 (C)人們對海洋生物的所知有限 (D)應多親近及關懷海洋生態。

5.（ D ）空城計一文中，孔明設空城計成功的原因為何？ (A)拖延戰術，等待援兵 (B)將士用命，以寡擊眾 (C)身先士卒，激勵將士 (D)知己知彼，謀定後動。

6.（ A ）下列俗諺，何者最適合用來勸人「注意說話，免用舌頭傷人」？ (A)刀割痕易合，語傷恨難消 (B)辭有所未盡，意有所未竭 (C)見人過失易，恕人過失難 (D)不道不善言，不說不實話。

7.（ D ）下列各選項的句子，何者可以看出飛魚對阿美族男人具有特殊意義？ (A)天色已昏，四處尋不著海翁，倒是飛魚熱情相伴相隨 (B)飛魚網淺淺浮在海面，網頭兩端各繫了一盞漁燈 (C)畢竟同個潮流，同一面海洋，飛魚並未遺漏東海岸阿美族村落 (D)飛魚帶給了阿美族男人豐年祭才有的光彩——漁獲是他們的無價勳章。

8.（ C ）空城計一文的主旨為何？ (A)記敘魏將司馬懿和蜀漢丞相孔明聯合抗敵、共謀大業的故事 (B)記敘蜀漢丞相孔明和關興、張苞勾心鬥角、爭奪權位的故事 (C)記敘蜀漢丞相孔明處變不驚、慎謀能斷，以險計退敵的故事 (D)記敘三國時魏將司馬懿足智多謀，使用高妙計謀退敵的故事。

9.（ A ）管好舌頭一文揭示我們善用舌頭能「造福」，濫用舌頭則會「造禍」。此種情形與下列何者的意旨相近？ (A)水能載舟，亦能覆舟 (B)不入虎穴，焉得虎子 (C)吃著碗裡，看著鍋裡 (D)失之東隅，收之桑榆。

10.（ B ）下列文句皆摘自廖鴻基的作品，對於修辭法的使用說明，何者正確？ (A)牠們碟子般大的圓圓鼻孔：轉化 (B)那身子銀光閃閃如一疋銀緞迤邐：譬喻 (C)觸鬚飄垂如吊燈懸掛的裝飾：轉化 (D)是我們曾經疑懼、曾經誤解善意、曾經躑躅不敢真情表露友誼：摹寫。

11.（ A ）國文老師要同學上臺介紹三國演義這本書，下列四位同學的說法何者正確？ (A)小丸子：三國演義是一部章回小說 (B)花輪：三國演義的作者是三國時代的小說家 (C)小玉：三國演義的情節完全根據三國志史實而來的 (D)丸尾：讀完三國演義一書就可以掌握三國的歷史。

12.（ D ）「經商則顧客最眾，辦事則助力最多，教學則成效最大。」這段話運用了排比修辭技巧。下列何者也使用相同的修辭技巧？ (A)舌頭有時像樊籠，一旦放語言的猛獸出柙，想捉拿回來極不容易 (B)哥哥最近接到一堆紅色炸彈，紅包錢花了不少 (C)一般河流若遇阻礙，總顯得暴戾不安 (D)牛群在原野上狂奔，羊群在哀哀慘叫，樹木在盡力縮矮。

13. (C) 廖鴻基：「海洋文化理應包含海鮮文化，是我們糊里糊塗吃魚，而且吃過頭了，才會使得海鮮文化扭曲變形而汙名化。文章裡常常寫魚，或討論魚類生態或漁業種種，常被問：『那你還吃不吃魚？』」我的回答是：因為接觸魚、認識魚——可以吃的魚才吃，不該吃的絕對不吃。」根據以上敘述，廖鴻基建議吃魚的正確心態應該如何？ (A)參考專家建議 (B)根據營養成分 (C)懂得有所選擇 (D)戒除吃魚的習慣。

14. (D) 下列「 」中的注音寫成國字後，何組字形相同？ (A)坐「ㄩㄥˇ」書城／人潮洶「ㄩㄥˇ」 (B)「ㄐㄧㄥ」旗蔽天／「ㄐㄧㄥ」天動地 (C)盡皆藏「ㄋㄧˋ」／態度親「ㄋㄧˋ」 (D)各守城「ㄆㄨˋ」／船艙床「ㄆㄨˋ」。

15. (C) 「□□不絕、□□欲動、□□起舞」。以上詞語缺空處，依序應填入哪些疊字詞？ (A)滔滔、翩翩、蠢蠢 (B)翩翩、蠢蠢、滔滔 (C)滔滔、蠢蠢、翩翩 (D)蠢蠢、滔滔、翩翩。

16. (C) 下列文句，何者「不屬於」動態的描寫？ (A)牠們便渾身是勁，瘋狂神經質地衝撞起來 (B)窸窣拍水聲中，牠平展藕紫色長翅，凌空滑翔飛去 (C)在臺灣沿岸漁撈日漸式微的今天，飛魚帶給了阿美族男人豐年祭才有的光彩 (D)飛魚群抖波顫起海面，薄翅開展貼海四散滑翔，海面上一片紛紛匆匆。

17. (D) 關於空城計一文的寫作特色，下列何者敘述正確？ (A)是一篇真實的歷史故事 (B)空城計運用許多對話，辯論空城計的優缺 (C)在國家的大小和財力上運用對比 (D)節奏緊湊明快，扣人心弦。

18. (A) 證嚴法師：「脾氣嘴巴不好，心地再好也不能算好人。」關於這句話的涵義，下列何者敘述最恰當？ (A)口是傷人斧 (B)沉默才是金 (C)人心隔肚皮 (D)脣亡則齒寒。

19. (C) 下列有關「魚」的詞語，何者詮釋「有誤」？ (A)無魚，蝦也好—比喻有總比沒有好 (B)魚躍鳶飛—指萬物各得其所 (C)人為刀俎，我為魚肉—比喻用錯方法，徒勞無功 (D)池魚之殃—比喻無辜卻受到牽連而遭禍。

20. (A) 下列「 」中的字，何組意義相同？ (A)「止」有一班文官／「止」知其一 (B)孔明「乃」披鶴氅／有「乃」父之風 (C)「盡」皆失色／取之不「盡」 (D)「執」法如山／手「執」麈尾。

21. (C) 老師要同學用成語造句，哪一個同學的句子造得「不恰當」？ (A)小丸子：小全講話一向快人快語、「口無遮攔」，你別見怪 (B)花輪：一打開冰櫃的門，櫃內囤聚的霧氣宛若「猛獸出柙」般地一湧而出 (C)丸尾：尹澄的繪畫造詣那麼高，卻去從事廣告看板的工作，真是雕蟲小技」啊 (D)小玉：公司雖然面臨了財務危機，封騰卻一副「老神在在」的模樣，一點也不以為意。

22. (C) 下列選項「 」中的字，何者讀音前後不同？ (A)「潺」湲／「讒」言 (B)「舒」緩／「抒」發 (C)邂「逅」／汙「垢」 (D)生活寂「寥」／工「寮」。

23. (A) 「飛魚是達悟族的最愛，每年二、三月便開始以船隊集體捕魚，接著再開放個體戶加入。三千戶的達悟族人，每戶約消耗一千條飛魚。隨著黑潮北上的飛魚群，年年充裕供養了不貪多的達悟人。但近年來因為漢人加入瓜分資源，用效率較高的流刺網和定置網大量捕捉飛魚，又用草蓆在外海誘使飛魚產卵以供人食用，導致飛魚數量連年遞減。所以現在達悟人每戶只能享用到一百條了。」由上述內容判斷，此文所欲探討的主題最可能為何？ (A)漁源衰竭的原因 (B)傳統習俗的式微 (C)漁撈技術的進步 (D)原住民族祭典的時程。

24. (C) 下列各文句，哪一個「 」中的詞語運用「不當」？ (A)突然發現火災，大家無不「駭然」驚恐 (B)人潮「蜂擁」而至 (C)她卸妝後面容「失色」 (D)待「某等」商議好，立即答覆。

25. (C) 國文課時，老師上了管好舌頭一課。下列是雪舞筆記中的部分文句，何者可證明舌頭充滿殺傷力、煽動力？ (A)舌頭真重要，說人是有思想、有智慧的動物，沒有舌頭就無以表達 (B)一個人有沒有教養，討人歡喜或是令人討厭，大抵都決定在他有怎樣的一副喉舌 (C)許多人倒在劍刃下，更多人則倒在舌頭下 (D)人最大的財富是舌頭。

屏東縣立恆春國中 112 學年度第 2 學期第 9 年級英文科補考 題庫

命題教師： 葉錦芳 教師 命題範圍： 審題教師：	班級：_____年_____班 座號：_____ 姓名：_____	分數：	家長簽名：

※ 作答說明：

1. 本試卷（含作答紙）共 1 張 2 頁，請同學檢查是否有誤。 科目代碼;02

一、綜合選擇題(每題 2.5 分，共五十分)

(C)1. Our refrigerator is not cooling. We need to get someone to _____ it as soon as possible.
(A)fail (B)bake (C)fix (D)bite

(A)2. You need to take up（開始……）a good _____ to keep yourself from playing too many online games.
(A)hobby (B)joke (C)seat (D)root

(A)3. Plants get water through their _____. (A)roots (B)matters (C)grams (D)bites

(B)4. Just put 5 more _____ of salt in the soup, and it will taste better.
(A)pieces (B)grams (C)dozens (D)hundreds

(C)5. All the students stood up and _____ politely after their teacher came into the classroom.
(A)broke (B)bitten (C)bowed (D)boiled

(A)6. Don't take it too seriously. It was just a _____. (A)joke (B)gate (C)bite (D)root

(D)7. A kite looks like a _____ when it's high in the sky. (A)product (B)tool (C)idea (D)dot

(A)8. A: You look pretty down today. _____ B: I failed my math test. (A)What's the matter?
(B)How did you get there? (C)How long have you been here? (D)How can we fix it?

(A)9. Rick loves learning _____. He can speak five of them.
(A)languages (B)items (C)songs (D)materials

(B)10. Look! Your brother sent you a letter with a _____ that has a castle on it.
(A)puppy (B)stamp (C)mud (D)side

(D)11. Mr. Wang runs a _____ in town. He has made much money from it.
(A)paste (B)center (C)grams (D) business

(D)12. James is so tall that he can even _____ the fan above him.
(A)honor (B)define (C)support (D)reach

(B)13. The _____ of coat is too big. I want to try on a smaller one.
(A)age (B)size (C)language (D)part

(D)14. Mr. Handler has a great _____ of Chinese history. He has taught history for many years.
(A)language (B)ancestor (C)business (D)knowledge

(C)15. Could you please help me get the _____ from the post office? I will not be home tomorrow.
(A)field (B)film (C)package (D)answer

(A)16. Mike is not sure _____ Leo will go hiking with him this weekend.
(A)whether (B)that (C)so (D)because

(C)17. The pretty dress that Amy wore to the party _____ in Taiwan.
(A)makes (B)made (C)was made (D)will be made

(A)18. Claire wants to know ___ jogging can help her keep in good shape. (A)if (B)too (C)that (D)what

(D)19. Angela enjoys watching movies _____ happy endings.
(A)which has (B)what about (C)that are (D)that have

(D)20. The woman _____ car broke down in the middle of the road looks helpless. Let's go help her.
(A)that (B)which (C)whether (D)whose

屏東縣立恆春國中一一二學年度第二學期八年級閩南語期末補考 答案卷

命題教師： 郭淑媛 教師 審題教師： 陳思穎 教師 命題範圍： 第四冊第一課~第四課	班級：＿＿＿＿年＿＿＿＿班 座號：＿＿＿＿ 姓名：＿＿＿＿＿＿＿＿	分數：	家長簽名：

一、 選擇題：(每題1分，共10分)

(D) 1. 根據第二課的課文，下面佗一个選項並無「成長心態」？
(A)一枝草，一點露。
(B)戇的也有一項會。
(C)荏荏馬嘛有一步踢。
(D)頇顢讀冊就無成就。

(A) 2. 根據第三課的課文，為啥物作者會「閃來閃去、跳來跳去，袂輸咧跳舞」？
(A)因為油桐花落甲滿滿是。
(B)因為伊驚會撞著四界飛的火金蛄。
(C)因為有火金蛄受傷，倒佇塗跤。
(D)因為真濟人來看油桐花，現場人㬇人。

(D) 3. 下面佗一个毋是「逐位」的華語意思？
(A)處處 (B)到處
(C)每處 (D)何處

(D) 4. 下面佗一个選項的華語意思是正確的？
(A)阿弟仔看起來真「兇狂」：猖狂。
(B)咱的環境受「損蕩」真嚴重：損失。
(C)我對這件代誌一直真「憢疑」：憤怒。
(D)聖誕節家己一个人足「稀微」：寂寞。

(C) 5. 下面佗一个是「掣一趒」的「趒」正確的拼音？
(A)tsiô (B)tsiō (C)tiô (D)tiō

(B) 6. 「一陣蜂咧□蜜。」格仔內底添佗一字上適當？
(A)淋 (B)欶 (C)叱 (D)唏

(C) 7. 「若無想欲輸人□□，就愛較拍拚咧。」格仔內底添啥物語詞上適合？
(A)艱苦 (B)悲哀
(C)忝忝 (D)膽寒

(D) 8. 「愛□□出發，才會赴轉來□□。」格仔內底添啥物語詞上適當？
(A)心適／影跡 (B)走揣／食暗
(C)冗早／影跡 (D)冗早／食暗

(C) 9.下面佗一个「艱苦」的意思佮其他的無仝款？

(A)上班攏會拄著「艱苦」的代誌。

(B)拜一透早起床時攏感覺足「艱苦」。

(C)你人咧「艱苦」，哪會無去看醫生？

(D)小弟想著明仔載愛上課就感覺真「艱苦」。

(C) 10.下面佗一个「數」的拼音無仝款？

(A)算「數」　　(B)「數」想

(C)禮「數」　　(D)價「數」

屏東縣立恆春國中112學年度第二學期八年級數學科補考題庫

範圍：第四冊

選擇題

1. 下列四個三角形中，何者不合理？

（A）
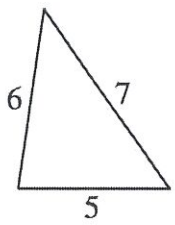

（B）
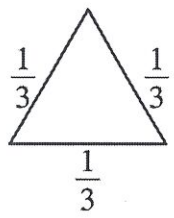

（C）
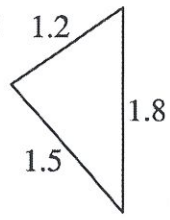

（D）
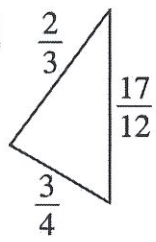

2. 下列四個選項中的數列，哪一個不是等比數列？

（A）8，-8，8，-8

（B）$\frac{8}{27}$，$-\frac{4}{9}$，$\frac{2}{3}$，-1

（C）$7\sqrt{5}$，$6\sqrt{5}$，$5\sqrt{5}$，$4\sqrt{5}$

（D）0.0001，0.001，0.01，0.1

3. 如圖，$\overline{AB}$ 與 $\overline{CD}$ 交於 O 點。若 $\angle AOC=(2x+5)^\circ$，$\angle BOD=(4x-45)^\circ$，則 $\angle AOD$ 的度數為多少？

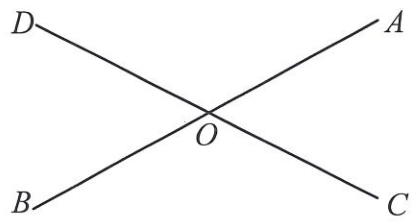

（A）25°　（B）55°　（C）125°　（D）155°

4. 已知函數 $y=4x+7$ 與函數 $y=7x-4$，在 $x=c$ 時的函數值相同，則 $c^2=$？

（A）-1　（B）$\frac{121}{9}$　（C）$\frac{9}{121}$　（D）1

5. 如圖，$L_1//L_2$，六邊形 $ABCDEF$ 為正六邊形，求 $\angle 1=$？

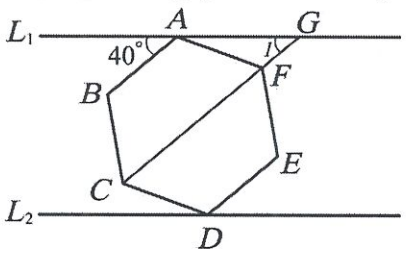

（A）20°　（B）30°　（C）40°　（D）50°

6. 如圖，$\triangle ABC$ 中，直線 L 為 $\overline{AC}$ 的中垂線，$\overline{CD}$ 平分 $\angle ACB$，且交 L 於 E 點。若 $\angle B=55^\circ$，$\angle DAE=20^\circ$，則 $\angle EAC=$？

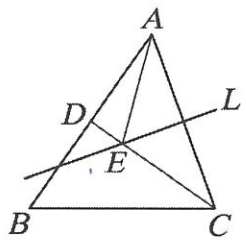

（A）35°　（B）33°　（C）30°　（D）25°

7. 若 4、x、6 為一個三角形的三邊長，且 x 為整數，則符合此條件的 x 有幾個？

（A）6　（B）7　（C）8　（D）9

8. 下列哪一種四邊形的對角線不會互相垂直？

（A）正方形　（B）菱形

（C）平行四邊形　（D）箏形

9. 下列何者是等差級數 $2+4+6+\cdots\cdots+200$ 的和？

（A）$\frac{200(2+200)}{2}$　（B）$\frac{100(2+200)}{2}$

（C）$\frac{198(2+200)}{2}$　（D）$\frac{99(2+200)}{2}$

10. 如圖，四邊形 $ABCD$ 為平行四邊形，若 $\angle A$ 的角平分線交 $\overline{BC}$ 於 E，$\overline{AD}=14$，$\overline{AB}=8$，求 $\overline{CE}=$？

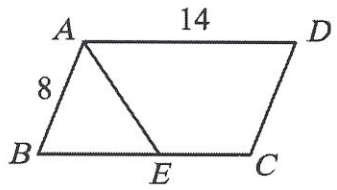

（A）6　（B）8　（C）10　（D）11

11. 如圖，四邊形 $ABCD$ 為正方形，且 $\overline{DE}=\overline{DG}$，下列敘述何者正確？

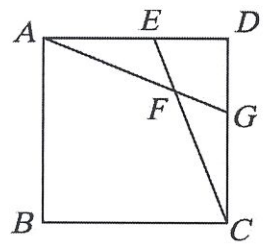

（A）$\overline{AE}=\overline{DE}$　（B）$\overline{EF}=\overline{FG}$

（C）$\overline{EF}=\overline{CF}$　（D）$\overline{AE}=\overline{EG}$

【背面尚有題目】

12. $\triangle ABC$ 中，$\overline{AB}=7$，$\overline{BC}=5$，$\overline{AC}=6$，則 $\angle A$、$\angle B$、$\angle C$ 的大小關係為何？
(A) $\angle A>\angle B>\angle C$　(B) $\angle B>\angle C>\angle A$
(C) $\angle C>\angle B>\angle A$　(D) $\angle C>\angle A>\angle B$

13. 若正三角形的周長為 18，求此正三角形的面積為多少平方單位？
(A) $8\sqrt{3}$　(B) $9\sqrt{3}$
(C) $10\sqrt{3}$　(D) $12\sqrt{3}$

14. 若將等差數列 a_1，a_2，a_3，……，a_{50} 的每一項都減去 10，形成一個新的數列，則下列敘述何者正確？
(A)新數列的和與原數列的和相同
(B)新數列的公差與原數列的公差相同
(C)新數列的和比原數列的和少 10
(D)新數列的公差比原數列的公差少 10

15. 函數 $y=3x+2$ 的圖形一定通過下列哪一點？
(A) $(-2，4)$　(B) $(3，6)$
(C) $(2，8)$　(D) $(4，11)$

16. 已知線型函數 $y=-x+3$，若在 $x=-1$ 時的函數值為 a，在 $x=1$ 時的函數值為 b，則 $a+b=$？
(A) 0　(B) 3　(C) 6　(D) 9

17. 下列哪個三角形與 $\triangle ABC$ 全等？

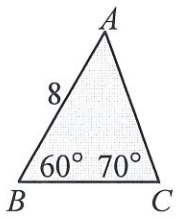

(A)
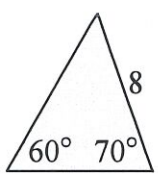

(B)
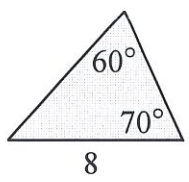

(C)
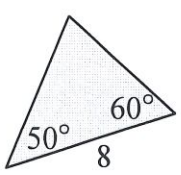

(D)
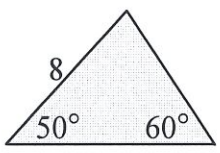

18. 如圖，若 $\overline{AE}=\overline{EB}$，$\overline{CE}=\overline{ED}$，且 $\angle AEC=\angle BED$，則下列何者錯誤？

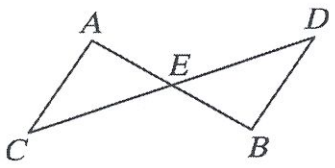

(A) $\angle A=\angle B$　(B) $\angle C=\angle D$
(C) $\overline{AC}=\overline{BD}$　(D) $\overline{AB}=\overline{CD}$

19. 若 x，4，y，9，z 為等比數列，且其公比為正數，則 $x\times y\times z$ 之值為何？
(A) 216　(B) 81　(C) 36　(D) 16

20. $\triangle ABC$ 中，$\overline{AB}>\overline{BC}>\overline{CA}$，則下列何者正確？
(A) $\angle A>\angle B>\angle C$　(B) $\angle B>\angle A>\angle C$
(C) $\angle C>\angle B>\angle A$　(D) $\angle C>\angle A>\angle B$

21. 如圖，將一長方形紙片沿著虛線剪成兩個全等的梯形紙片。根據圖中標示的長度與角度，求梯形紙片中較短的底邊長度為何？

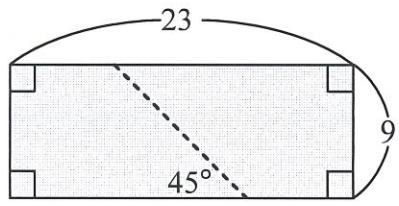

(A) 4　(B) 5　(C) 6　(D) 7

22. 如圖，試比較 a、b 的大小關係為何？

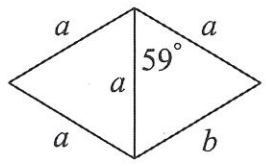

(A) $a<b$　(B) $a=b$
(C) $a>b$　(D)不能確定

23. 如圖，$\triangle ABC$ 中，$\overline{CD}$ 為 $\overline{AB}$ 上的高。若 $\overline{CA}=\overline{CE}=13$，$\overline{DE}=5$，$\overline{AB}=14$，則 $\triangle CBE$ 的面積為多少平方單位？

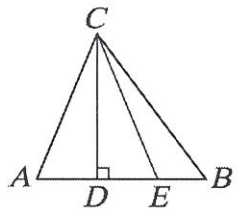

(A) 24　(B) 30　(C) 36　(D) 48

24. 已知四邊形 $ABCD$ 是正方形，$\overline{AB}=10\sqrt{2}$，對角線 $\overline{AC}$、$\overline{BD}$ 交於 O 點，E 點在 $\overline{BO}$ 上，且 $\overline{BE}:\overline{OE}=2:3$，試判斷下列敘述何者錯誤？

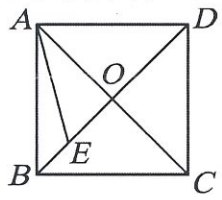

(A) $\overline{AC}=20$　(B) $\overline{AO}=10$
(C) $\overline{OE}=6$　(D) $\overline{AE}=8$

25. 如圖，等腰三角形 ABC 中，$\overline{AB}=\overline{AC}$，$\angle A=40^\circ$，頂點 B、C 皆在直線 L 上，兩內角的角平分線 $\overline{BP}$ 和 $\overline{CP}$ 交於 P 點。今固定 C 點，將此三角形依順時針方向旋轉，使得新三角形 $A'B'C$ 的頂點 A' 落在 L 上，且兩內角的角平分線 $\overline{B'P'}$ 和 $\overline{CP'}$ 交於 P' 點，則下列敘述何者正確？

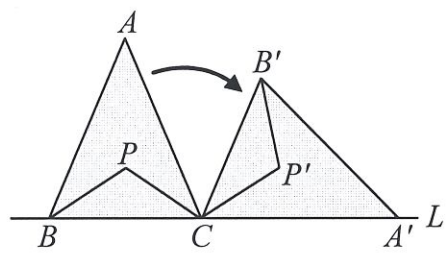

(A) $\overline{BP}$ 和 $\overline{CP'}$ 平行，$\overline{CP}$ 和 $\overline{A'B'}$ 平行
(B) $\overline{BP}$ 和 $\overline{CP'}$ 平行，$\overline{CP}$ 和 $\overline{A'B'}$ 不平行
(C) $\overline{BP}$ 和 $\overline{CP'}$ 不平行，$\overline{CP}$ 和 $\overline{A'B'}$ 平行
(D) $\overline{BP}$ 和 $\overline{CP'}$ 不平行，$\overline{CP}$ 和 $\overline{A'B'}$ 不平行。

屏東縣立恆春國中113學年度第一學期　九年級　自然科　補考題庫卷

(C)　1.　家裡懸吊的吊燈呈靜止時，關於其受力之情形，下列敘述何者正確？（A)僅受地球引力作用　(B)僅受懸線之拉力作用　(C)同時受地球引力和懸線拉力之作用　(D)不受力作用。

(A)　2.　已知活性大小：Ca＞Mg＞Al＞C＞Cu，則下列金屬氧化物，何者可用煤焦冶煉？（A）CuO　(B) MgO　(C) Al_2O_3　(D) CaO。

(D)　3.　下列哪一反應不是氧化還原反應？（A）$H_2+PbO \rightarrow Pb+H_2O$　(B) $2Mg+CO_2 \rightarrow C+2MgO$　(C) $Mg+CuO \rightarrow Cu+MgO$　(D) $NH_3+HCl \rightarrow NH_4Cl$。

(B)　4.　甲溶液是一般食醋，乙溶液是食鹽水，丙溶液是石灰水，三者的 pH 值依大小順排列，下列何者正確？（A)丙＞丙＞甲　(B)丙＞乙＞甲　(C)甲＞丙＞乙　(D)甲＞乙＞丙。

(D)　5.　小妙買進三種布料，但不小心搞混，所以想透過實驗分辨它們，根據她的實驗結果（如表），甲、乙、丙布料可能為何？

觀察項目	甲	乙	丙
吸水性	差	可	佳
透光性	差	差	佳
燃燒情形	纖維末端成球狀	如同羽毛燃燒氣味	如同紙張燃燒氣味

(A)甲：羊毛、乙：麻、丙：聚酯纖維　(B)甲：亞麻、乙：貂皮、丙：達克綸　(C)甲：保麗龍、乙：兔毛、丙：蠶絲　(D)甲：尼龍、乙：蠶絲、丙：棉。

(B)　6.　天然氣的主要成分為何？（A)丙烷和丁烷　(B)甲烷和乙烷　(C)甲醇和乙醇　(D)丙醇和丁醇。

(D)　7.　酸鹼相遇時會發生中和反應，下列哪一個反應沒有中和的現象？（A)口含吸管對著氫氧化鈉溶液吹氣　(B)農夫利用草木灰改善土質　(C)胃酸分泌過多，服用含有小蘇打的胃藥　(D)使用乾粉滅火器來撲滅火災。

(C)　8.　某分子的結構模型如圖所示，圖中紫球表碳原子，藍球表氫原子。下列有關此分子的敘述何者錯誤？

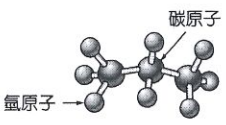

(A)此分子是有機化合物　(B)此分子的分子式是 C_3H_8　(C)此分子在常溫常壓下是液體　(D)此分子是液化石油氣的主要成分。

(D)　9.　下列有關有機化合物的敘述，何者錯誤？
(A)碳是必要的元素，可以和氫、氧、氮、氯……等許多原子直接結合　(B)有機化合物乾餾後常留下含碳的固體　(C)由於原子排列方式不同就能表現出不同性質，所以有機化合物種類繁多　(D)碳原子本身不可以互相連結起來。

(A)　10.　燒杯中的大理岩與鹽酸反應後秤得質量減少，其原因為何？（A)所生成的二氧化碳逸失　(B)所生成的氧逸失　(C)兩者所含的原子被消滅了　(D)空氣中的氧氣沒有參與反應。

(B)　11.　已知鈉、鋅、銅對氧的活性順序：鈉＞鋅＞銅，則下列哪一組混合物加熱後會發生反應？（A)鋅和氧化鈉　(B)鋅和氧化銅　(C)銅和氧化鈉　(D)銅和氧化鋅。

(A)　12.　下列物質的水溶液何者呈鹼性？（A) $NaHCO_3$　(B) H_2CO_3　(C) CH_3COOH　(D) H_2SO_3。

(B) 13. 志玲利用裝置圖中燈泡的亮度，來比較相同濃度下不同電解質的導電性，下列哪項敘述是正確的？

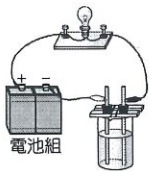

(A)燈泡的亮度愈亮，表示電解質的導電性愈弱 (B)燒杯內裝入氫氧化鈉水溶液時，燈泡亮度會比裝入醋酸水溶液時亮 (C)燒杯中裝入海水，燈泡將不亮 (D)燒杯內裝入硝酸鉀水溶液時，燈泡亮度非常微弱。

(B) 14. 寶特瓶是由一種聚合物加工塑形而成，此聚合物是利用乙二醇與苯二甲酸脫水反應而成，則此聚合反應是屬於下列何種反應？ (A)皂化反應 (B)酯化反應 (C)中和反應 (D)氧化反應。

(B) 15. 一均勻物體密度為 0.8 g/cm^3、體積為 V cm^3，若將其置於水中，則會有多少 cm^3 的體積浸在液面下？（水密度為 1 g/cm^3） (A)$\frac{2}{3}$V (B)$\frac{4}{5}$V (C)$\frac{1}{5}$V (D)$\frac{1}{3}$V。

(D) 16. 有關以已知濃度的氫氧化鉀溶液來中和硫酸的實驗，其裝置如圖，並以酚酞作為指示劑，下列敘述何者正確？

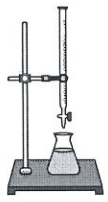

(A)滴定管中應放置硫酸 (B)酚酞指示劑應置於滴定管中 (C)中和完成之後，錐形瓶內的溶液呈無色 (D)中和完成之後，錐形瓶內的溶液可導電。

(C) 17. 在甲、乙、丙三支試管中分別裝入 10 毫升、1 M 的鹽酸、醋酸和硫酸，再加入等量的鋅粉，則三支試管產生氣泡的速率比較，下列何者正確？ (A)甲＝乙＝丙 (B)甲＝丙＞乙 (C)丙＞甲＞乙 (D)三支試管都不會產生氣泡。

(D) 18. 將乙醇（C_2H_6O）和氧氣置於一個完全封閉的容器中使其完全燃燒，測得反應前後物質的質量如表所示，則下列敘述何者正確？

物質	C_2H_6O	O_2	CO_2	H_2O
反應前質量（g）	4.6	12	0	0
反應後質量（g）	0	X	8.8	5.4

(A)表格中 X＝3.2
(B)本實驗結果不符合質量守恆定律
(C)若反應前乙醇的質量為 5.0 g，則 X＝0
(D)若反應前氧氣的質量為 9.6 g，則 X＝0

(C) 19. 醋酸水溶液、蒸餾水、氫氧化鈣水溶液，三者都是無色透明的液體，關於三者的性質比較，下列何者正確？
(A)氫氧化鈣水溶液的導電性最佳，醋酸水溶液最差 (B)將醋酸水溶液與氫氧化鈣水溶液混合，會產生白色沉澱 (C)以藍色石蕊試紙檢驗，則蒸餾水和氫氧化鈣水溶液均呈藍色 (D)以藍色氯化亞鈷試紙檢驗，僅蒸餾水會呈粉紅色。

(C) 20. 已知溫度每升高 10℃，反應速率則增加一倍，若在 20℃下將 10 毫升、0.10M 的 Na_2CO_3 和 10 毫升、

0.10M 的 $CaCl_2$ 兩溶液混合，20 秒後溶液中出現混濁。則當反應溫度為 40℃時，同樣的反應出現混濁所需的時間約為幾秒？ （A）15 （B）10 （C）5 （D）2.5。

(D) 21. 蛋白質和胺基酸兩者的關係與下列何者相似？
（A）澱粉與肝糖 （B）酒精與乙醇 （C）苛性鈉與氫氧化鈉 （D）纖維素與葡萄糖。

(D) 22. 在一大氣壓的環境下，靜置於水平桌面的兩裝置如圖所示。圖中 P、R 兩點位於玻璃管內的液面，Q、S 兩點位於玻璃管外容器內的液面，其中哪兩個點的氣壓為一大氣壓？〔110.會考〕

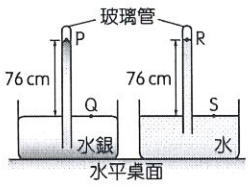

（A）P、Q （B）R、S （C）P、R （D）Q、S。

(C) 23. 將相同的鐵球與碗，以不同方式置於水中如圖(a)、(b)所示，則圖(a)與圖(b)中何者所受的浮力較大？

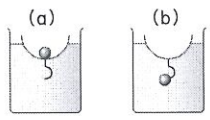

（A）a （B）b （C）一樣大 （D）無法判定。

(A) 24. 阿銘上體育課時玩單槓，他採用各種方式，如圖甲、乙、丙等三種吊姿。阿銘採取何種吊姿最為省力？

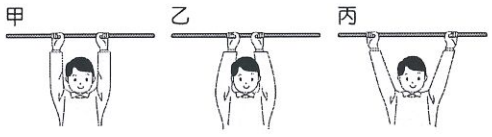

（A）甲 （B）乙 （C）丙 （D）三種方式皆相同。

(D) 25. 下列哪一個實驗結果會產生氣體？
（A）氯化鈣加碳酸鈉 （B）鈉燃燒 （C）鎂在二氧化碳中燃燒 （D）碳粉加氧化銅在試管中燃燒。

(B) 26. 有大小正立方體鐵塊各一，邊長各為 2A 與 A，水平置於桌面，若小鐵塊對桌面產生的壓力為 P，試問大鐵塊對桌面產生的壓力為何？
（A）P （B）2P （C）3P （D）4P。

(A) 27. 小憲欲探討反應物的四種濃度與應變變因 X 的關係，經由實驗結果，得到「反應物濃度上升，應變變因 X 之值越小」的結論。根據上述結論，小憲的實驗紀錄和應變變因 X 的倒數（1／X）與反應物濃度的關係圖，可能為下列何者？〔110.會考〕 （A）

反應物濃度（M）	0.1	0.2	0.3	0.4
應變變因 X（秒）	100	50	33	25

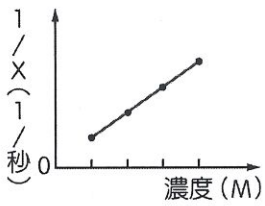

（B）

反應物濃度（M）	0.1	0.2	0.3	0.4
應變變因 X（秒）	25	33	50	100

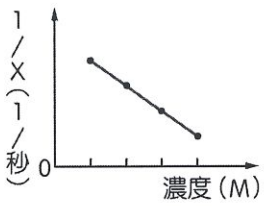

（C）

反應物濃度（M）	0.1	0.2	0.3	0.4
應變變因 X（秒）	10	20	30	40

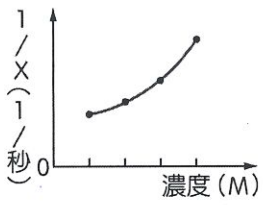

(D)

反應物濃度（M）	0.1	0.2	0.3	0.4
應變變因 X（秒）	40	30	20	10

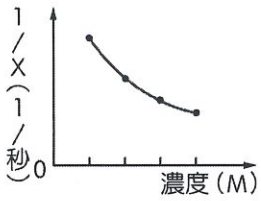

(C) 28. 若水的密度為 1g／cm^3，則 1 公升水的體積（容積）莫耳數濃度為多少？
（A）1M （B）18M （C）55.6M （D）1×10^{-2}M。

(C) 29. 醣類又被稱為碳水化合物的原因為何？
（A）醣類是可溶於水的含碳物質 （B）醣類可分解出碳及水 （C）醣類中的氫、氧之比例為 2：1 （D）醣類是由碳與水分子聚合而成。

耶誕節時，華華和同學在老師的帶領下舉辦營火晚會，搭營火時老師建議負責的同學將木材劈得較細較薄些，燃燒效果會較好。晚會開始了，在熊熊的營火下，大家唱歌、跳舞、吃東西，非常快樂。晚會進入尾聲，大家點燃手裡事先準備好的仙女棒，輕輕揮舞，搭配感性的音樂，這是今日的壓軸——真心話時間。伴隨著感動和歡喜，晚會結束了。老師建議大家將沙子撒在營火上即可滅火。將場地整理完畢後，大家返回帳篷裡睡覺，迎接璀璨的明天。請根據本文，回答下列問題：

(B) 30. 生營火時，把木材劈得較細較薄，而且堆得寬寬鬆鬆，主要的原因可能為何？
（A）美觀 （B）增加木材和空氣接觸的面積 （C）避免木材自燃 （D）可以讓營火燃燒較久。
（B）物質的顆粒愈小，總接觸面積愈大。

(B) 31. 仙女棒燃燒時發出美麗的光芒，有關仙女棒燃燒的敘述，下列何者錯誤？
（A）仙女棒燃燒屬於劇烈的反應 （B）仙女棒不容易點燃，所以屬於需要長時間才有明顯變化的反應
（C）仙女棒要燃燒，需要達到一定的溫度 （D）仙女棒燃燒的反應速率很快。
（B）仙女棒燃燒為快速的反應。

(A) 32. 將沙子灑在營火上，可以熄滅營火的主要原因為何？
（A）隔絕氧氣、降低溫度 （B）隔絕二氧化碳 （C）因為沙子不能燃燒 （D）增加接觸面積。
（A）沙子覆蓋在可燃物上，隔絕空氣的接觸。

在野外時，可以利用麵粉及碳酸鹽（化學膨鬆劑）製作簡易的麵包來食用。其製造方法如下：在麵粉中加入一些固體的碳酸鹽，和水混合揉成細長狀捲在木棒上。把這捲好的麵粉條放在火上烤，當碳酸鹽受熱可以分解出氣體，使麵條膨鬆可口。試回答下列問題：

(B) 33. 根據本文，想要讓麵包在加熱後，體積較原本體積膨脹許多，可以加入以下何種物質？
（A）石膏 （B）小蘇打粉 （C）熟石灰 （D）燒鹼。
小蘇打粉為碳酸氫鈉，又稱為焙用鹼。

(C) 34. 當麵粉中的碳酸鹽受熱產生氣體，這氣體為下列何者？
（A）氧氣 （B）氫氣 （C）二氧化碳 （D）氮氣。
碳酸鹽受熱分解出二氧化碳。

(D) 35. 下列的實驗過程或製作食品過程，何者與麵包加入碳酸鹽經加熱會膨脹的成因最相似？
（A）雙氧水加入二氧化錳製造氧氣 （B）炭烤肉類加入一些醋調味 （C）硫酸鈣加水後硬化 （D）添加碳酸氫鈉的油條在熱油鍋中會膨脹。
（D）碳酸氫鈉為碳酸鹽，在油鍋中受熱分解出二氧化碳。

沼氣是指有機物經微生物厭氧（缺氧）發酵所產生的氣體，主成分為甲烷、二氧化碳和微量的硫化氫等氣體。下列實驗探討不同發酵條件對於沼氣產量的影響。步驟如下：
1. 至生態池中挖取含有微生物的汙泥，並去除雜質。
2. 將適量的廚餘、水、汙泥混合後，均分成三等分，分別置於三瓶發酵瓶中，再將發酵瓶分別放入不同溫度的恆溫水浴中，並組成三組排水集氣裝置。
3. 次日開始，每隔 24 小時，定時測量一次集氣瓶中的排開水量，並記錄之。

4. 檢測集氣瓶內的氣體，以確保收集氣體的過程，發酵還在進行。
5. 每日於檢測後，將集氣瓶重新裝滿水再放回水槽中，繼續收集氣體。
實驗結果如表所示：〔111. 會考〕

水浴溫度（℃）	排開水量（g）				
	第一天	第二天	第三天	第四天	第五天
24	30	110	160	182	172
28	55	175	278	212	181
34	107	501	431	170	153

(B) 36. 完成步驟 2 後的發酵裝置圖，應為下列何者才合理？（考慮橡皮塞的有無和橡皮管兩端的位置） （A）

（B）

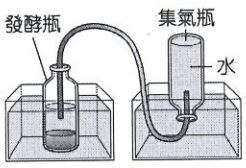

（C）

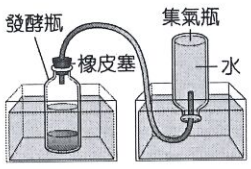

（D）

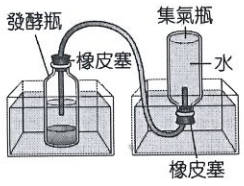

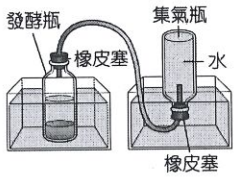

(C) 37. 牧牧和小歡兩人針對步驟 4，各自提出檢測方法：
牧牧：如圖(一)所示，在集氣瓶中加入適量的澄清石灰水溶液，搖晃後，若變混濁，表示有二氧化碳，以推測收集氣體的過程，發酵還在進行。
小歡：如圖(二)所示，將有火焰的線香放入集氣瓶內，若線香持續燃燒，表示有助燃性氣體，以推測收集氣體的過程，發酵還在進行。
依據實驗內容，判斷兩人的檢測說明是否合理？

圖(一)

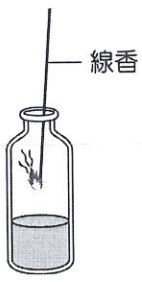

圖(二)

(A)兩人皆合理 (B)兩人皆不合理 (C)只有牧牧合理 (D)只有小歡合理。

(D) 38. 依據實驗內容與結果，可以判斷出下列何者？ (A)厭氧發酵溫度愈高，微生物的活性反而會降低 (B)此厭氧發酵所產生的氣體，都屬於易溶於水的氣體 (C)三種溫度所產生的沼氣，甲烷的體積百分比都在 20%左右 (D)表中排開水量數值愈大，可表示當天該條件下的發酵速率愈快。

分別以水銀和水兩種液體進行托里切利實驗，已知當時氣壓為一大氣壓，結果如圖所示，試回答下列問題：

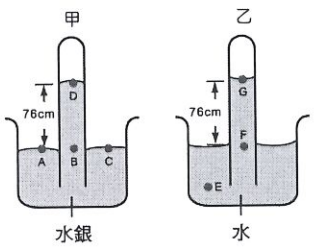

(C) 39. 圖中 B、D、F、G 四點，液體所受壓力大小順序為何？ (A) B＞F＞D＝G (B) F＞B＞G＝D (C) B＝F＞G＞D (D) B＝F＞G＝D。

(D) 40. 裝乙裝置移至真空的環境中時，水柱的高度會有什麼變化？ (A)水柱高度不變，仍然為 76cm (B)管內水柱高度下降至與外界水面等高 (C)管內水柱高度上升充滿整個玻璃管 (D)管內水柱高度下降至比與外界水面低。

屏東縣立恆春國中 112 學年度第 2 學期 8 年級社會科補考題庫

命題教師： 地理：所有教師 歷史：所有教師 公民：所有教師 審題：所有教師	命題範圍： 地理：L1-L6 歷史：L1-L6 公民：L1-L6	班級：_____年_____班 座號：_____ 姓名： _____	分數：	家長簽名：	**科目代號:** **05**

- 作答說明：

1. 本試卷共 2 張 3 頁，請同學檢查是否有誤。
2. 試卷中若印刷不清，請立即向監考老師反應，更換試卷。
3. 考試過程，嚴禁交談，請遵守考場規則。

一、單選題：

地理科(1~17 題)

1. 東南亞的區域經濟結盟為下列何者？ (A)WTO (B)ASEAN (C)APEC (D)GDP。
2. **13 世紀左右，阿拉伯商人貿易活動同時也將下列何者宗教信仰帶入南洋群島？ (A)印度教 (B)佛教 (C)伊斯蘭教 (D)基督教。**
3. 東南亞位於亞洲的東南端，其東西地理位置正位於下列哪兩個海洋之間？ (A)太平洋、大西洋 (B)太平洋、印度洋 (C)大西洋、地中海 (D)大西洋、印度洋。
4. 印度東北部省分有迎風多雨及丘陵地形，所以形成下列何者作物產量豐富的條件？ (A)黃麻 (B)甘蔗 (C)茶葉 (D)稻米。
5. 東南亞各國塞車問題嚴重，印尼以興建何種交通系統，以減少雅加達城市內的塞車之苦？ (A)高鐵 (B)公車客運 (C)Gojek 叫車服務 (D)捷運。
6. 南亞的印度半島，一年中隨著季節的變換而形成各種不同的氣候特色，其中以涼季最為舒適宜人，是最佳的旅遊時節，下列何者時段是涼季？ (A) 11 月～隔年 2 月 (B) 3～5 月 (C) 6～10 月 (D) 1～12 月。
7. 非洲重要的亞斯文高壩及第一大都市開羅，其分布位置和下列哪一條河川有關係？
   (A)尼羅河 (B)底格里斯河 (C)幼發拉底河 (D)剛果河。
8. 下列哪一地區和歐洲、非洲兩洲地理位置相鄰，地理位置重要，成為兵家必爭之地，吸引世界強權的注意？
   (A)南亞 (B)北亞 (C)中亞 (D)西亞。



附圖(一)

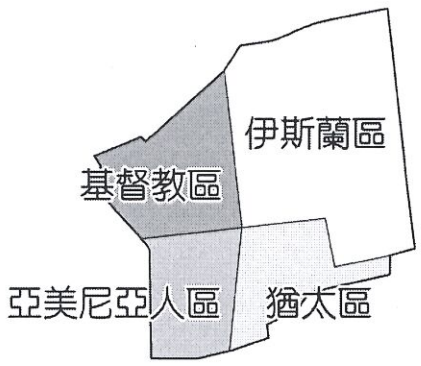

附圖(二)

9. 附圖(一)是某組織的標誌，其成立的宗旨在維護產油國利益、控制石油產量與價格，指的是下列何者？
   (A)WTO (B) OPEC (C) APEC (D)ASEAN。
10. 附圖(二)是某個都市舊城區圖，由圖中內容判斷，最可能是指下列哪一個都市？
   (A)麥加 (B)杜拜 (C)耶路撒冷 (D)開羅。
11. 撒哈拉沙漠為世界面積最大的乾燥地區，造成該地區氣候乾燥的主要原因，和所處何者緯度附近有關？
   (A) 0° (B) 23.5°N (C) 66.5°N (D) 90°N。
12. 西亞與北非國家的經濟活動由農牧業轉向工商業發展，其發展的經費主要來自下列何者累積的資金？
   (A)航海運輸 (B)石油輸出 (C)觀光旅遊 (D)高科技工業。
13. 下列何者那一河川因位於熱帶雨林氣候區內，而成為漠南非洲流域面積最寬廣及流量最大的河川？ (A)尼羅河 (B)尼日河 (C)亞馬孫河 (D)剛果河。
14. 非洲哪一區域因赤道通過，氣候呈高溫多雨的特色，也有「赤道非洲」之稱？ (A)東部非洲 (B)西部非洲 (C)中部非洲 (D)南部非洲。

15. 非洲東部因斷層陷落而形成範圍廣大的地塹，被稱為「地球的傷疤」，指的是下列何者？ (A)東非大河谷 (B)東非大裂谷 (C)東非大山谷 (D)東非大地谷。
16. 漠南非洲下列哪二國為石油輸出國家組織（OPEC）成員，石油資源相當豐富？ (A)南非、肯亞 (B)衣索比亞、象牙海岸 (C)奈及利亞、安哥拉 (D)尚比亞、索馬利亞。
17. 漠南非洲的族群主要以下列何者為特色？ (A)黑人 (B)阿拉伯人 (C)斯拉夫人 (D)猶太人。

歷史科(18~34 題)

18. 孫中山受到甲午戰爭中國戰敗的刺激，創立了哪個革命組織，展開革命運動？ (A)興中會 (B)同盟會 (C)國民黨 (D)中華革命黨。
19. 1911 年，革命黨人利用清廷調動湖北新軍前往四川鎮壓保路運動，發動起事成功，當時各省陸續響應宣布獨立，史稱「辛亥革命」。請問：起事發生地點在**附圖(三)**的哪一處？ (A)甲 (B)乙 (C)丙 (D)丁。
20. 中華民國臨時政府成立後，先後有哪兩人擔任過臨時大總統？ (A)袁世凱、梁啟超 (B)孫中山、康有為 (C)孫中山、袁世凱 (D)孫中山、梁啟超。

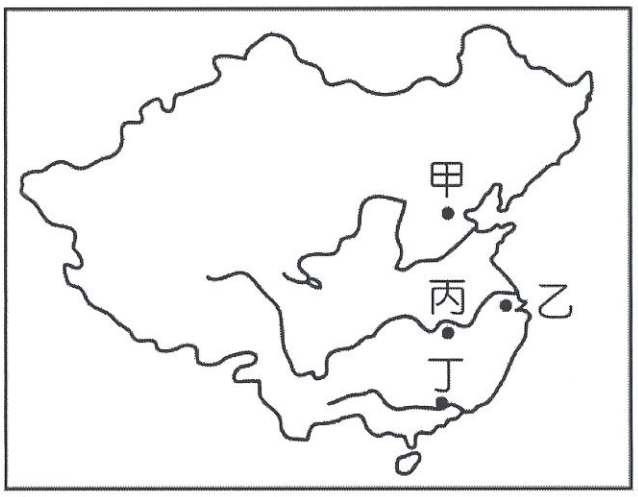

附圖(三)

21. 民國 2 年，主張實行政黨政治的國民黨代理理事長被刺身亡，輿論多認為袁世凱是幕後主使者。請問：這位被刺身亡的人是誰？ (A)宋教仁 (B)段祺瑞 (C)馮國璋 (D)張勳。
22. 承上題，袁世凱與國民黨的衝突不斷升高下，國民黨發動了哪次行動討袁，結果失敗？ (A)武昌起事 (B)二次革命 (C)黃花崗之役 (D)督軍團事變。
23. 在第一次世界大戰爆發之際，日本藉口對德國宣戰，而利用歐洲列強無暇東顧之際，出兵占領中國原屬於德國勢力範圍的哪一地區？ (A)遼東半島 (B)東北 (C)山東半島 (D)長江流域。
24. 民國 12 年，孫中山領導的中國國民黨採行「聯俄容共」的政策，接受蘇聯的援助，並同意中共黨員以個人身分加入。孫中山採行上述政策是想解決下列哪一情況？ (A)五四運動的爆發 (B)軍閥割據 (C)袁世凱恢復帝制 (D)幣制的混亂。
25. 孫中山決心要聯俄容共，創立自己的軍隊，因而在下列何處成立一所「中國軍隊的搖籃學校」？ (A)南京 (B)武漢 (C)廣州 (D)上海。
26. 「打倒列強、打倒列強，除軍閥、除軍閥，努力國民革命、努力國民革命，齊奮鬥、齊奮鬥。」這一首歌詞是在描述哪一時期關心中國前途的人所唱的？ (A)五四運動 (B)北伐期間 (C)剿共期間 (D)八年抗戰。
27. 孫中山於民國 14 年病逝後，由何人承擔國民革命的重責大任，並領導國民革命軍北伐，終於統一中國？ (A)蔣中正 (B)張作霖 (C)張學良 (D)段祺瑞。
28. 在孫中山所著的《建國大綱》中，將國家建設分為三個時期：(甲)軍政(乙)訓政(丙)憲政。按照實施時間先後順序排列，應為下列何者？ (A)甲乙丙 (B)乙丙甲 (C)丙甲乙 (D)甲丙乙。
29. 國民政府成立以來，在哪一段時期政治局勢相對穩定，政府積極從事建設？ (A)民國元年～民國 5 年 (B)民國 5 年～民國 17 年 (C)民國 17 年～民國 26 年 (D)民國 26 年～民國 34 年。
30. 每年 10 月 1 日是中共的重要節日，公務機關都不上班，民眾亦安排出外旅遊。請問：這個節日是為紀念下列哪一件事？ (A)毛澤東生日 (B)中國共產黨創立 (C)中華人民共和國成立 (D)毛澤東逝世。
31. 中華人民共和國成立之初，大張旗鼓的從事各項改革政策。請問：這些政策中<u>不包括</u>下列何者？ (A)實施土地改革 (B)將民間企業收歸國有 (C)沒收地主土地 (D)廣納知識分子的意見。
32. 在某一段時期，中國人瘋狂投入一場運動，紛紛將家裡可以燒的門窗拆下來，將家裡的鍋碗瓢盆往屋外送，就是希望可以為國家的偉大遠景貢獻自己微薄之力。請問：上文所描述的是哪一事件？ (A)土法煉鋼 (B)人民公社 (C)文化大革命 (D)土地改革。
33. 1958 年中國各地虛報產量的事比比皆是。其中最著名的是河北徐水縣，號稱一年收穫糧食 12 億斤，《人民日報》還報導毛澤東在當地視察時說：「你們全縣 31 萬多人口，怎麼能吃得完那麼多糧食啊？……農業社員們自己多吃嘛！一天吃五頓也行嘛！」實際上當年徐水縣的糧食畝產才 138 斤。請問：當年中國各地的浮誇風是在何種背景下所產生？ (A)大躍進 (B)土地改革 (C)文化大革命 (D)改革開放。
34. 中共曾經有一個運動，決定「十五年超英趕美」，又標榜「星星當太陽，下雨當沖涼」的苦幹精神。請問：這是指下列哪一項運動？ (A)土地改革 (B)大躍進 (C)文化大革命 (D)改革開放。

公民科(35~50 題)

35. 14 歲的子瑜是國二的學生，根據法律規定，她所從事的下列哪一項行為，需要法定代理人允許、承認，才具有效力？(A)搭公車上學　(B)領取學校頒發的獎學金　(C)買手搖飲料　(D)申辦手機門號。

36. 下列哪一項行為屬於民法上的債務不履行？(A)小潔答應與網友見面卻失約　(B)阿珮向朋友借錢，卻遲遲不還　(C)小峰撕壞了同學的課本　(D)阿虎偷了鄰居的電動玩具。

37. 阿翰與小林發生肢體衝突，但已透過調解委員會達成調解。請問關於此事件的敘述何者正確？(A)達成調解後，雙方仍可反悔提起訴訟　(B)調解是在法官面前進行，所以不能再提告　(C)調解書經法院核定後，就不能再提告　(D)調解委員不是法官，調解結果沒有強制力。

38. 歌手小豪與歌迷打賭，只要專輯銷售破 10 萬張，就在簽唱會全裸。請問上述打賭內容無法律效力，是因違反民法權利行使的哪一個原則？(A)權利濫用禁止　(B)誠實信用　(C)契約自由　(D)消滅時效。

39. 請問下列何者屬於民法所規範的的權利義務關係？
(A)小東偷同學的錢包　(B)小西向朋友借機車　(C)小南向鄰居勒索 5000 元　(D)小北騎車未戴安全帽。

40. 通訊行將架上的展示機，當作未拆封的新機販售給不知情的顧客，引發爭議。請問通訊行的做法已經違反了何項法律原則？(A)誠實信用　(B)權利濫用禁止　(C)契約自由　(D)消滅時效。

41. 刑法中對於刑法的種類包含主刑與從刑，依據現行刑法，下列何者屬於從刑？
(A)沒收　(B)褫奪公權　(C)罰金　(D)拘役。

42. 右圖中兩人所討論的新聞事件應為下列何者？
(A)夫妻離婚財產糾紛　(B)男子深夜製造噪音
(C)婦人從事網路詐騙　(D)富商遺產分配爭議。

43. 阿文家所養的狗未栓好，衝出院子咬傷恰好從旁經過的豆豆，豆豆憤而委任律師向地方法院提出訴訟，請求依法判處阿文重刑。請問豆豆的行為在刑事訴訟上稱什麼？(A)自訴　(B)自首　(C)公訴　(D)告訴。

44. 下列何者屬於刑法規定得減刑的範疇？(A)82 歲的老李闖紅燈，導致機車騎士遭撞擊死亡　(B)28 歲的超哥動手毆打客人，導致對方頭部重傷　(C)68 歲的阿龍至便利商店竊取現金　(D)12 歲的小花在網路恐嚇同學，害同學不敢到學校。

45. 新竹監獄成立技能訓練中心，開設電腦班、中式烹飪班、中式麵食班、園藝班，訓練受刑人謀生技能。上述作法的用意為下列何者？(A)延後受刑人接觸社會的時間　(B)達到嚇阻民眾犯罪的效果　(C)擴大政府對監獄的管控　(D)使受刑人重返社會後能正常生活。

46. 依照《勞動基準法》規定，童工的年齡限制為何？
(A)15 歲以上未滿 16 歲　(B)14 歲以上未滿 16 歲
(C)14 歲以上未滿 18 歲　(D)16 歲以上未滿 18 歲。

47. 右圖標籤上警語的內容，符合我國何項法律的規定？
(A)家庭暴力防治法　(B)社會秩序維護法
(C)少年事件處理法　(D)兒童及少年福利與權益保障法。

品　　名：克利特級葡萄酒
採收時間：1987年3月
品　　種：卡伯納・蘇維翁
產　　區：[redacted]
內 容 量：750毫升
酒精濃度：15%
產　　國：[redacted]
警語：未滿十八歲不得飲酒

48. 某化學工廠因被民眾檢舉排放廢水，遭環保局斷水斷電處分。工廠負責人對此行政處分深感不服，欲循法律途徑解決。請問工廠負責人應該先進行哪一個程序？(A)告發　(B)調解　(C)訴願　(D)訴訟。

49. 靜香所居住的房子，剛好位於機場捷運徵收區段，將會被桃園市政府依法強制徵收。請問桃園市政府「強制徵收」的行為屬於下列何者？
(A)行政處分　(B)民事賠償　(C)刑事責任　(D)定型化契約。

- 汽車駕駛人於開車時，使用手持式行動電話進行撥接或通話者，處新臺幣 3,000 元罰款。
- 不良場所業者應拒絕兒童及少年進入，違者將被主管機關處以罰款，並公告負責人姓名。

50. 右圖是小新上課報告時所舉的例子，根據其內容判斷，下列何者最可能是該報告的主題？(A)政府可藉由行政處分處理違規行為　(B)政府可制定民事法規解決民事糾紛　(C)政府可透過刑事處罰減少犯罪事件　(D)政府可修改相關法規增加國家稅收。

屏東縣立恆春國中 112 學年度第 2 學期 8 年級社會科補考題庫 答案卷

命題教師： 地理：ooo 教師 歷史：ooo 教師 公民：ooo 教師	命題範圍： 地理： 歷史： 公民：	班級：_____年_____班 座號：_____ 姓名： _____	分數：	家長簽名：

一、單選題：(每題 2 分，共 50 分)

1	2	3	4	5	6	7	8	9	10
B	C	B	C	D	A	A	D	B	C

11	12	13	14	15	16	17	18	19	20
B	B	D	C	B	C	A	A	C	C

21	22	23	24	25	26	27	28	29	30
A	B	C	B	C	B	A	A	C	C

31	32	33	34	35	36	37	38	39	40
D	A	A	B	D	B	C	C	B	A

41	42	43	44	45	46	47	48	49	50
B	C	A	A	D	A	D	C	A	A

屏東縣立恆春國中　112學年下8年級藝術(全)補考題庫

一、單一選擇題

1. (　) 下列何者街頭塗鴉創作之前應該具備的思考？ (A)想要表達什麼 (B)思考自己喜愛的創作形式，作為來表達對社會的期待或反抗 (C)抄襲名家的想法 (D)媒材與工具要先做好什麼準備。

答案：(C)

解析：抄襲名家的想法。不是塗鴉創作之前應該具備的思考。

2. (　) 下列哪一位藝術家，自幼就有幻聽與幻覺，但她將腦中迷幻的圓點化為圖像，造就了獨一無二的奇幻藝術世界。 (A)羅蘭珊 (B)卡羅 (C)卡莎特 (D)草間彌生。

答案：(D)

解析：草間彌生患有精神官能症，圓點出現在了她的幻覺中。

3. (　) 下列關於運動場館與建築師的配對，何者有誤？ (A)隈研吾－東京奧運場館 (B)法蘭克·洛伊·萊特－馬德里綜合體育館 (C)伊東豐雄－高雄國家體育場 (D)金壽根－首爾奧林匹克主競技場。

答案：(B)

解析：應為阿爾貝托·坎波·巴埃薩（Alberto Campo Baeza）。

4. (　) 下列何者非打擊樂器？ (A)低音管 (B)饒鈸 (C)沙錘。

答案：(A)

5. (　) 請問低音號屬於何類樂器？ (A)弦樂器 (B)擊樂器 (C)銅管樂器。

答案：(C)

6. (　) 導演的工作可分為準備階段、排演階段、整合階段等四個階段，請問下列何者非導演在準備階的工作內容？ (A)決定演員、規劃排練時間 (B)反覆閱讀劇本，瞭解情節發展、人物關係及理念思想 (C)與各設計部門聯繫與溝通 (D)安排演員走位與場面調度。

答案：(D)

解析：為導演在排演階段時的工作內容。

7. (　) 請問鐵琴屬於哪一種樂器？ (A)弦樂器 (B)打擊樂器 (C)鍵盤樂器。

答案：(B)

8. (　) 下列何者是指有排列琴鍵的樂器總稱？ (A)鍵盤樂器 (B)打擊樂器 (C)銅管樂器。

答案：(A)

9. (　) 下列哪一種樂器不屬於弦鳴樂器？ (A)小提琴 (B)二胡 (C)長笛。

答案：(C)

10. (　) 傳統水墨畫使用的紙材分生紙和熟紙，通常視需求選用紙張。關於紙的描述以下敘述何者是錯誤的？ (A)生紙較容易產生豐富的墨韻變化 (B)表層塗上膠礬的是熟紙，較不吸水，多在工筆畫使用 (C)吸水性強的宣紙，是因為上了礬 (D)棉紙相較於宣紙有韌性。

答案：(C)

解析：紙張加工刷上明礬粉，紙張纖維的孔隙填補上，故吸水性會降低。

11. (　) 導演的工作可分為準備階段、排演階段、整合階段等四個階段，請問下列何者非導演在排演階的工作內容？ (A)修正演員動作及情緒 (B)安排演員走位與場面調度 (C)與各設計部門持續聯繫與溝通 (D)反覆閱讀劇本，瞭解情節發展、人物關係及理念思想。

答案：(D)

解析：為導演在準備階段時的工作內容。

12. (　) 以下何者樂器不需要使用到簧片進行發聲？ (A)匏 (B)塤 (C)笙 (D)嗩吶。

答案：(B)

解析：塤以吹孔發聲，是一種古老的吹奏樂器，起源於先民用於模仿鳥獸叫聲以誘捕獵物，並隨著文化的進步而發展為樂器，音色古樸淡雅，在古代音樂史上佔有重要地位。

13. (　) 翰翰是水墨畫初學者，需要一支稱心如意的毛筆來畫石頭。你覺得怎樣的筆會比較合適？ (A)松鼠毛 (B)狼毫 (C)羊毫 (D)兔毫。

答案：(B)

解析：硬毫筆，多以狼、鹿、兔毛製成。軟毫筆，以羊毫製成。狼毫筆的筆毛接近棕色，適合用來寫草書和畫石頭，用這類筆繪畫看起來會比較有粗糙滄桑的感覺。

14. (　) 〈清明上河圖〉的移動視點與透視表現手法，很接近現代電影或拼貼構圖中_____所敘述表現方式。 (A)特寫 (B)蒙太奇 (C)重複曝光 (D)變焦。

答案：(B)

15. (　) 下列何者敘述不是安迪・沃荷（Andy Warhol）的創作理念？ (A)商業與藝術簡單而直接的結合 (B)精緻的寫實描繪真實的人像 (C)利用大眾文化和消費者可以接受的風格，發展出有別於當時的抽象及現實主義風格的藝術 (D)將美國人最熟悉的流行文化以符號或商標的方式融入藝術，讓大眾更容易參與他的藝術文化與精神。

答案：(B)

解析：安迪・沃荷認為藝術與金錢掛勾，因此應該要努力把藝術商業化。他的著名作品金寶湯罐頭（Campbell's Soup Cans），以包裝人們日常生活的食品為主角，就表現了資本主義生產方式的新一階段。

16. (　) 〈鱒魚〉為舒伯特著名的藝術歌曲之一，請問其詩作內容取材自哪位詩人？ (A)舒巴特（Christian Schubart） (B)佛瑞（Gabriel Faure） (C)用保羅魏爾德（Paul Verlaine） (D)莎士比亞（William Shakespeare）。

答案：(A)

解析：舒伯特的藝術歌曲〈鱒魚〉取材自舒巴特（Christian Schubart）同名詩作，舒伯特以音響，呈現歌曲旁白與漁夫的心境，也為詩詞增添畫面感，豐富閱聽者的想像空間。

17. (　) 為了讓更了解音樂、文學之間在藝術作品上的認識，祐宇決定前往音樂廳欣賞表演，以下哪一場音樂會的曲目全部屬於史帝芬・保羅・薛爾（Steven Paul Scher）在《文學與音樂》（Literature and Music）中提到「音樂與文學」分類？ (A)〈曼陀林〉、〈梁山伯與祝英臺〉、〈隨風而逝〉 (B)〈梁山伯與祝英臺〉、〈仲夏夜之夢〉、〈隨風而逝〉 (C)〈阮若打開心內的門窗〉、〈仲夏夜之夢〉、〈鱒魚〉 (D)〈踏雪尋梅〉、〈鱒魚〉、〈曼陀林〉。

答案：(D)

解析：〈曼陀林〉—音樂與文學；〈梁山伯與祝英臺〉—音樂中的文學；〈隨風而逝〉—文學中的音樂；〈仲夏夜之夢〉—音樂中的文學；〈阮若打開心內的門窗〉—音樂與文學；〈鱒魚〉—音樂與文學；〈踏雪尋梅〉—音樂與文學，故選(D)。

18. (　) 瑪莎・葛蘭姆是美國現代舞發展初期最重要的舞蹈家，下列何者是她非常重視的事情，這也成為現代舞特色之一？ (A)情感的抒發與表達 (B)動作的規律與原則 (C)服裝的顏色及材質 (D)姿勢的誇張與到位。

答案：(A)

19. (　) 下列關於巴黎聖母大教堂的敘述，何者正確？ (A)屬於後現代主義建築 (B)2015年遭大火吞噬，迄今重建中 (C)特徵是中世紀浮雕、飛扶壁和玫

瑰花窗 (D)位於法國的基督教教堂。

答案：(C)

20. ( ) 校內合唱團預計在期末舉辦一場「音樂與文學饗宴」的音樂會，以下哪首曲目較不適當？ (A)《仲夏夜之夢》 (B)《阮若打開心內的門窗》 (C)《我有一個戀愛》 (D)《踏雪尋梅》。

答案：(A)

解析：《仲夏夜之夢》為音樂重的文學，(B)、(C)、(D)接為藝術歌曲，屬於學與音樂。

21. ( ) 藝術家張仲良的攝影作品，探究影像的時間與空間性。畫面中拼貼了在同一空間，不同視角下呈現出時間流淌的景觀與生活情境。如同電影手法中的剪接方式，稱為_____。 (A)特寫鏡頭 (B)蒙太奇 (C)平移縮放 (D)追焦畫面。

答案：(B)

解析：蒙太奇作為電影剪接的一種手法，可以帶領觀眾跳脫時間與空間的限制。在不同地點，從不同距離和角度，以不同方法拍攝的鏡頭排列組合起來，以產生暗喻的作用。

22. ( ) 在〈茉莉花〉一曲中出現的音分別為 Do、Re、Mi、Sol、La，樂曲最後結束音為 Sol，請問是五聲音階中的何種調式？ (A)宮調式 (B)徵調式 (C)羽調是 (D)角調式。

答案：(B)

解析：〈茉莉花〉這首樂曲中使用的音在排列後分別為 Do、Re、Mi、Sol、La，其樂曲做後一音為 Sol。因此為徵調式。

23. ( ) 「游擊隊女孩」最具象徵性的作品，是將哪一幅作品戴上了猩猩頭套，寫著：「女性是否只有裸體才能進入大都會博物館？」 (A)波提且利〈維納斯的誕生〉 (B)達文西〈蒙娜麗莎〉 (C)維梅爾〈戴珍珠耳環的少女〉 (D)安格爾〈大宮女〉。

答案：(D)

解析：1989 年，「游擊女孩」惡搞了法國古典主義畫家安格爾的〈大宮女〉，給她套上個猩猩頭套，並附上醒目的標語。主要是抗議大都會博物館展示的現代藝術中不足 5%的藝術家是女性，但 85%的裸體是女性。

24. ( ) 欣賞〈清明上河圖〉的長卷，能在其中神遊可行、可望、可遊亦居，空間如同今日電影，隨時移動視角，時間在流轉，空間也在移動。屬於什麼樣的透視法？ (A)聚焦 (B)兩點 (C)單點 (D)散點。

答案：(D)

解析：作品的尺幅及創作者想傳達的意境，是以「移動視點」的方式呈現，和西方的單點透視不同。散點透視突破單一取景的限制，將眾多視線片段表現在同一個畫面中。

25. ( ) 製墨原料為煙和膠，好的墨「質重、膠輕、味香」。
_____墨，黯黑無光，適寫字。
_____墨，黝黑發亮，適作畫。
(A)松煙墨、油煙墨 (B)松煙墨、油煙墨 (C)油煙墨、漆煙墨 (D)松煙墨、炭煙墨。

答案：(B)

解析：常用製成的墨有松煙墨和油煙墨。松煙墨黑而無光，多用於寫字。油煙墨為桐油煙製成，墨色黑而有光澤，能顯出墨色濃淡的細緻變化，宜作畫。

二、是非題 (每題 2.5 分，共 37.5 分)

1. ( ) 居家宅第是最早出現的建築雛形。

答案：○

2. ( ) 城市角落所帶來的新鮮感受都是精彩的塗鴉藝術。

答案：╳

解析：曾經塗鴉在一般大眾眼裡是破壞公物的行為，但卻有許多城市開始開放不同場域
和藝術家合作，將塗鴉藝術合法置入城市，塑造全新的城市景觀、展現塗鴉獨特魅力，進而成為觀光熱門地點。

3. ( ) 碧娜・鮑許的舞蹈劇場，大膽打破既有的形式和限制，舞蹈本身已不是目的，而是媒介，用來敘說人的故事，包含喜怒哀樂、事件和議題的表達或闡述。

答案：╳

解析：是一種結合舞蹈肢體動作、劇場表演與大眾娛樂形式的演出。

4. ( ) 沉浸式劇場打破傳統表演的框架，讓觀眾積極參與其中，有身歷其境的感受。

答案：○

5. ( ) 為保護噴漆師傅和塗鴉創作者及減少對環境的污染，選擇無毒噴漆則是塗鴉者對生態負責任責無旁貸的一件工作。

答案：○

6. ( ) 一位大提琴演奏者與鋼琴伴奏的組合式藝術歌曲常見的表演形式。

答案：╳

解析：藝術歌曲常見的表演形式由一位歌者與鋼琴伴奏組合。

7. ( ) 倍低音管是屬於木管樂器的分類。

答案：○

解析：西洋管弦樂團中，常見的木管樂器有短笛、長笛、雙簧管、單簧管、低音管、倍低音管。

8. ( ) 摩斯・康寧漢師承瑪莎・葛蘭姆，以《易經》為靈感衍伸出機遇編舞法使用機率或隨機的編排方式編舞，以多重視角革新的舞蹈，是連結美國現代舞和後現代舞的代表人物。

答案：○

9. ( ) 由一種或數種擔任獨奏的樂器和樂團合作的作品稱為「大協奏曲」。

答案：╳

解析：用一組樂器與樂團合作的作品稱為「大協奏曲」。

10. ( ) 梆笛常用的吹奏技巧之一是滑音，是通過手指在笛孔上的滑動產生滑音的效果，常用來模仿鳥叫聲。

答案：○

解析：滑音—梆笛常用吹奏技法之一，通過手指在笛孔上滑動或者是通過氣息的運用產生滑音效果，可以模仿鳥叫、烘托氣氛等。

11. ( ) 在現代國樂團中胡琴、高胡的聲部相當於西洋管弦樂團中的大提琴聲部。

答案：╳

解析：在現代國樂團中胡琴、高湖的聲部相當於西洋管弦樂團中的小提琴、中提琴聲部。

12. ( ) 舒伯特（Franz Schubert）創作的藝術歌曲〈紡車旁的葛麗卿〉(Gretchen am Spinnrade)，源於歌德（Johann Wolfgang von Goethe）的《少年維特的煩惱》（Die Leiden des jungen Werthers）。

答案：╳

解析：〈紡車旁的葛麗卿〉(Gretchen am Spinnrade)此曲為舒伯特（Franz Schubert）創作的藝術歌曲，源於歌德（Johann Wolfgang von Goethe）的《浮士德》（Faust）。

13. ( ) 定音鼓是屬於膜鳴樂器嗎？

答案：○

14. ( ) 根據環境劇場的概念，廟會儀式、陣頭、舞龍舞獅、媽祖繞境、選舉造勢活動、原住民族祭典儀式等表演藝術形式符合環境劇場。

答案：○

15. ( ) 設置於南勢角捷運站內〈青春美樂地〉是以壓克力玻璃、霓虹燈構成。這是臺灣藝術家—賴純純的作品，用以詮釋青春象徵著熱情，亦象徵著中和南勢角是一個發展成長中的衛星城。

答案：○

屏東縣立恆春國民中學 112 學年度第二學期 八年級綜合領域補考試題題庫

考試範圍:南一第四冊　命題教師:洪于涵

一、在野外要順利存活需要考驗求生者事前的規劃及當下的應變能力。
請寫出一項「求生金字塔」的要素並舉例說明。 請參閱課本 p.11

二、在野外如果不幸遇到意外，對外取得聯繫是獲救的關鍵因素。請寫出一項求救方法及如何操作。
請參閱課本 p.31

三、植物在野外是重要的食物來源之一。請寫出一項分辨有毒植物與可食植物的辨識方式。
請參閱課本 p.42

四、小春是一位手很巧的國三男學生，畢業後想就讀美容美髮科。但父母卻不贊同這個決定，
認為男生不適合從事這類型的工作。請問如果你是小春該怎麼說服父母。請參閱課本 p.56-58

五、愛情對許多人來說，應該都是既期待又怕受傷害，而國中這個階段的愛情更是青澀。
當有心儀的對象出現時，該採取什麼行動來表達答比較適當?請寫出至少兩項。請參閱課本 p.61

六、兩人決定交往後，正是面對考驗的開始。在交往互動中常出現讓人陷入困擾的情境。
當你的對象要求你「不能和異性講話、互動，甚至是不准你追蹤任何異性」才能證明對他的愛意。
請寫下有什麼因應方法能解決問題並促進雙方彼此了解。請參閱課本 p.64

七、在包羅萬象的職業世界中，有哪些職業是比較吸引你的? 請寫下你未來最想從事的工作以及
這份工作所需要具備(要求)的能力或是條件。例如學歷、證照、工作態度或是價值觀等。
請參閱課本 p.70-74

八、食物往往是家的代名詞。伴隨著我們的日常生活並乘載了家人的心意，成為生命記憶的一部分。
請寫下一道讓你有特殊情感的食物。例如，在特別的節日或是重要時刻家人會準備的一道料理。
請參閱課本 p.82-83

九、語言是溝通的「橋」也可能是「牆」。正向的言語是有效溝通的要素之一。請將下列家人互動的
負面話語用四個層次(觀察、感受、需求、請求)改為正向話語。請參閱課本 p.95-96

為什麼每次都要我把玩具讓給弟弟，你總是偏心袒護弟弟!

十、「愛之語」表達方式有五種，分別為肯定的言詞、精心的時刻、用心的禮物、服務的行動以及
肢體的接觸。請寫出你最喜歡其他人使用哪一種愛之語對待你?為什麼? 請參閱課本 p.106-107